Урок в 1 классе
«Логические задачи»

Подготовила учитель начальных классов
Евенко Мария Алексеевна

1
2
3
4
5
6
7
8
9
10
11
12
13
14
15
16
17
18
19
20
21
22
23
24
25
26
27
28
29
30
31
32
33
34
35
36
37
38
39

Реши круговые примеры

9 – 4 = 5

10 – 4 + 3 = 9

5 + 2 – 1 = 6

1 + 5 + 4 = 10

8 – 3 – 4 = 1

4 + 2 +2 = 8

6 + 3 – 5 = 4

К. или Ол.

Утром четверо ребят
На зарядку стали в ряд.
Я с мальчишками знаком.
Коля с Мишей босиком,
На ногах Олега Вовки
Обувь — синие кроссовки.
Знаю я, кто выше всех:
Это — Коля и Олег
Отгадай, в каком порядке
Дети стали на зарядке?

1 Миша

2 Олег

3 Коля

4 Вовка

Что легче:
1 кг гвоздей или 1 кг перьев?



Что такое магическое число и как его найти.
Найди магическое число, складывая числа в разных столбцах и строках.

Я задумал два числа. Когда я сложил их, получил 5. Когда из одного вычел другое, получил 3. Какие числа я задумал?

○ + ○ = 5

○ − ○ = 3

4 + 1 = 5

4 − 1 = 3

Какие фигуры можно собрать из двух таких деталей?
Укажи ВСЕ варианты.

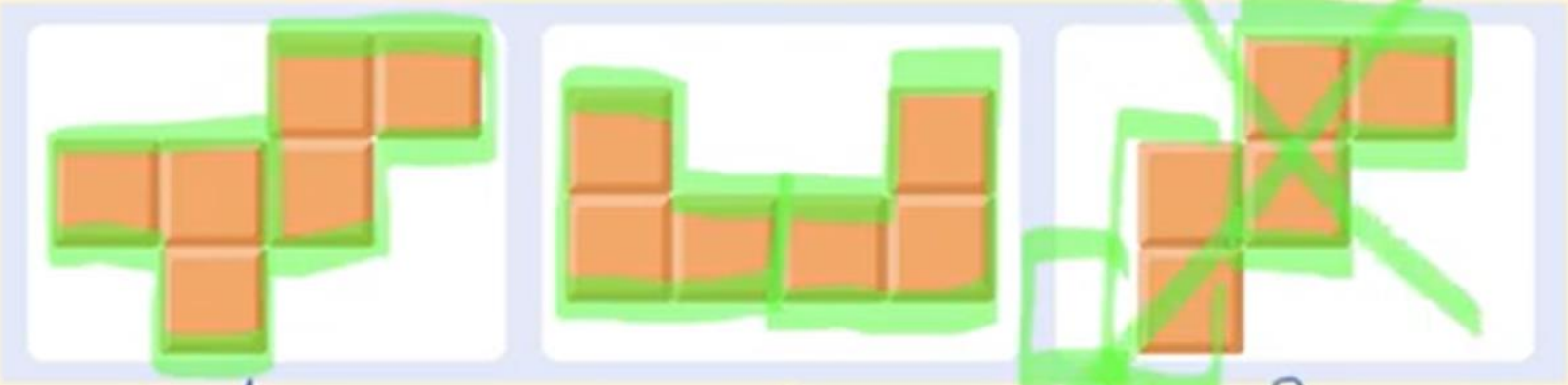

1 2 3

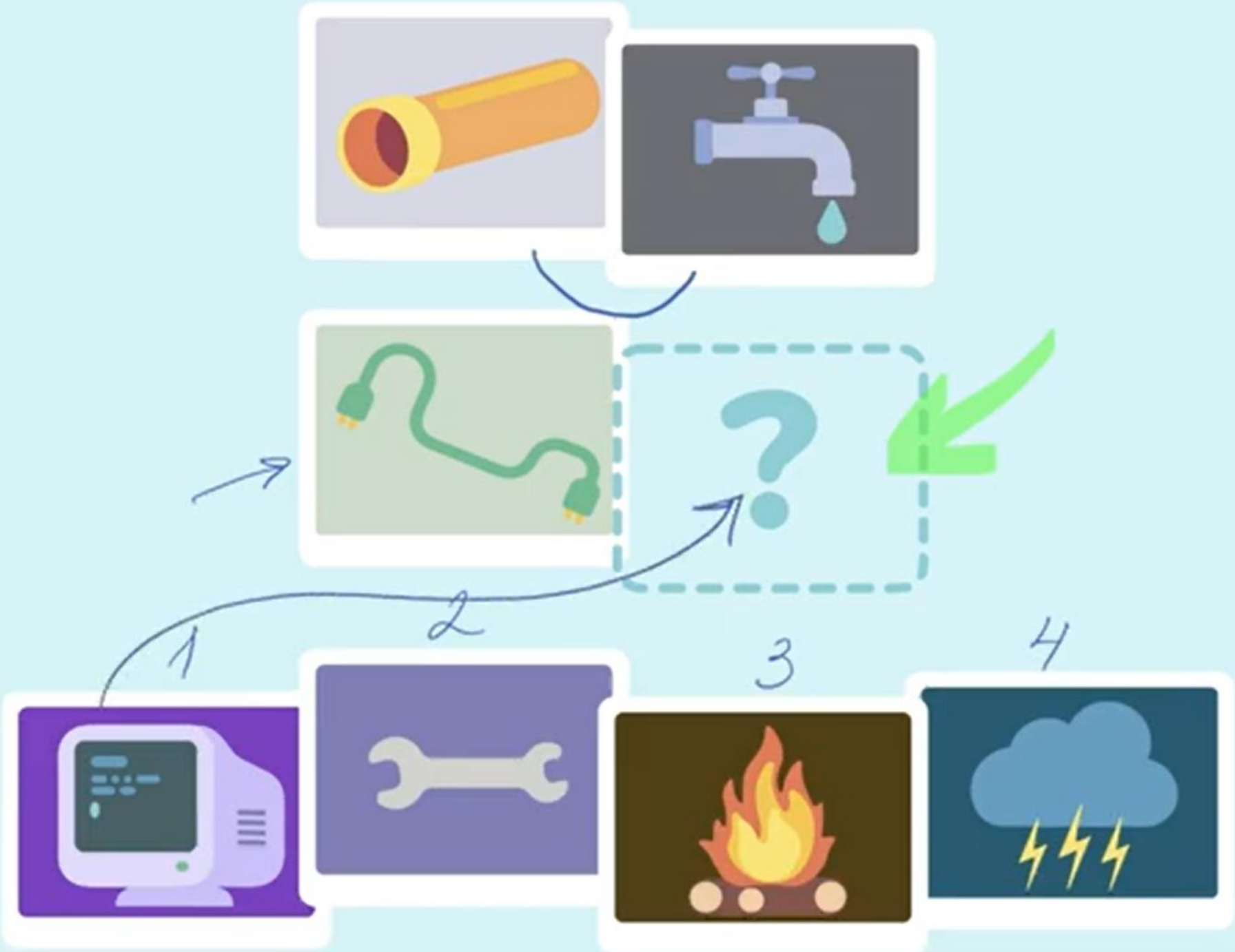
1
2
3
4

1
2
3
4

На снимке Олег, Кира и Макс. Костюм Киры не красный. Олег не рядом с Кирой. Укажи маску Олега.

Брату 4 года, а сестре 6. Сколько лет будет брату, когда сестре будет 10?

Сумма двух чисел 8, а разность — 6. Какие это числа?

○ + ○ = 8

○ − ○ = 6

7 + 1 = 8

7 − 1 = 6

УРА!
ВЫ СПРАВИЛИСЬ!